14 ముందు, మధ్య, తరువాత సంఖ్యలు

కింది బొమ్మను చూడండి. ఏం జరుగుతున్నదో చెప్పండి. నిల్చున్నవారు ఎంత మంది? కూర్చున్నవారు ఎంత మంది?



★ ఒకటవ వరుసలో సీట్లు ఎన్ని ఉన్నాయి?

★ రెండో వరుసలో సీట్లు ఏ సంఖ్యతో ప్రారంభమయ్యింది?

★ 3వ వరుసలో సీట్లు ఏ సంఖ్యతో ముగుస్తుంది?

★ కొన్ని సీట్లకు సంఖ్యలు లేవు. ఆ సంఖ్యలేవో చెప్పండి.

★ 14, 17 వ సీట్ల మధ్యలో ఉన్న రెండు వరుస సీట్ల సంఖ్యలు చెప్పండి?

★ 31 నుండి 40 వరకు ఎంతమంది కూర్చోగలరు?

★ 45 ముందు సంఖ్య ఏది?

★ 49 తరువాత సంఖ్య ఏది?

★ 7, ఏ రెండు సంఖ్యల మధ్య ఉంది?

★ 34 సంఖ్య 40 కి దగ్గరా? 31 కి దగ్గరా?

పై బొమ్మను పరిశీలింపజేయండి. జవాబులు చెప్పమనండి.

(అ) కింది బొమ్మలలో చుక్కలను లెక్కించండి. వాటికి సరిపడు సంఖ్యలను '□' లో రాయండి. ఏది ఎక్కువో దానిపై '✓' ను ఉంచండి.

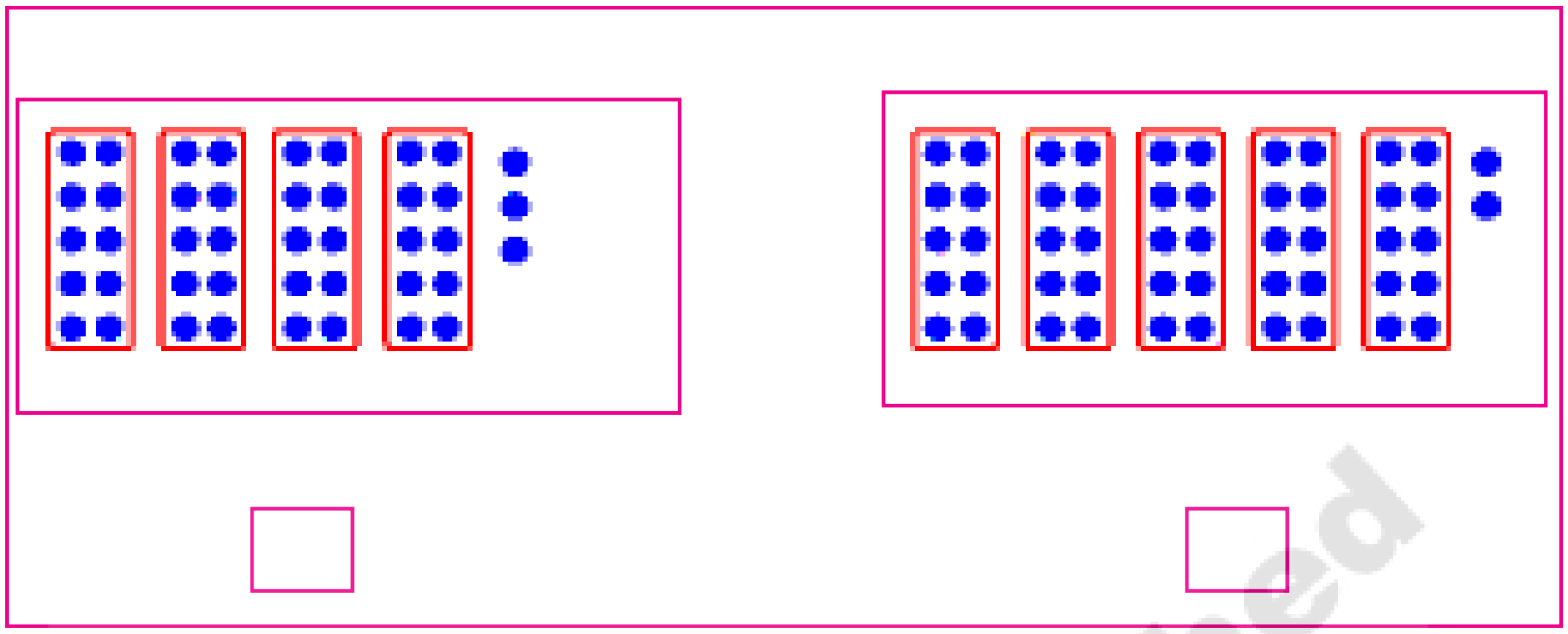

(ఆ) కింది బొమ్మలలో చుక్కలను లెక్కించండి. వాటికి సరిపడు సంఖ్యలను '□' లో రాయండి. ఏది తక్కువో దానిపై '✓' ను ఉంచండి.

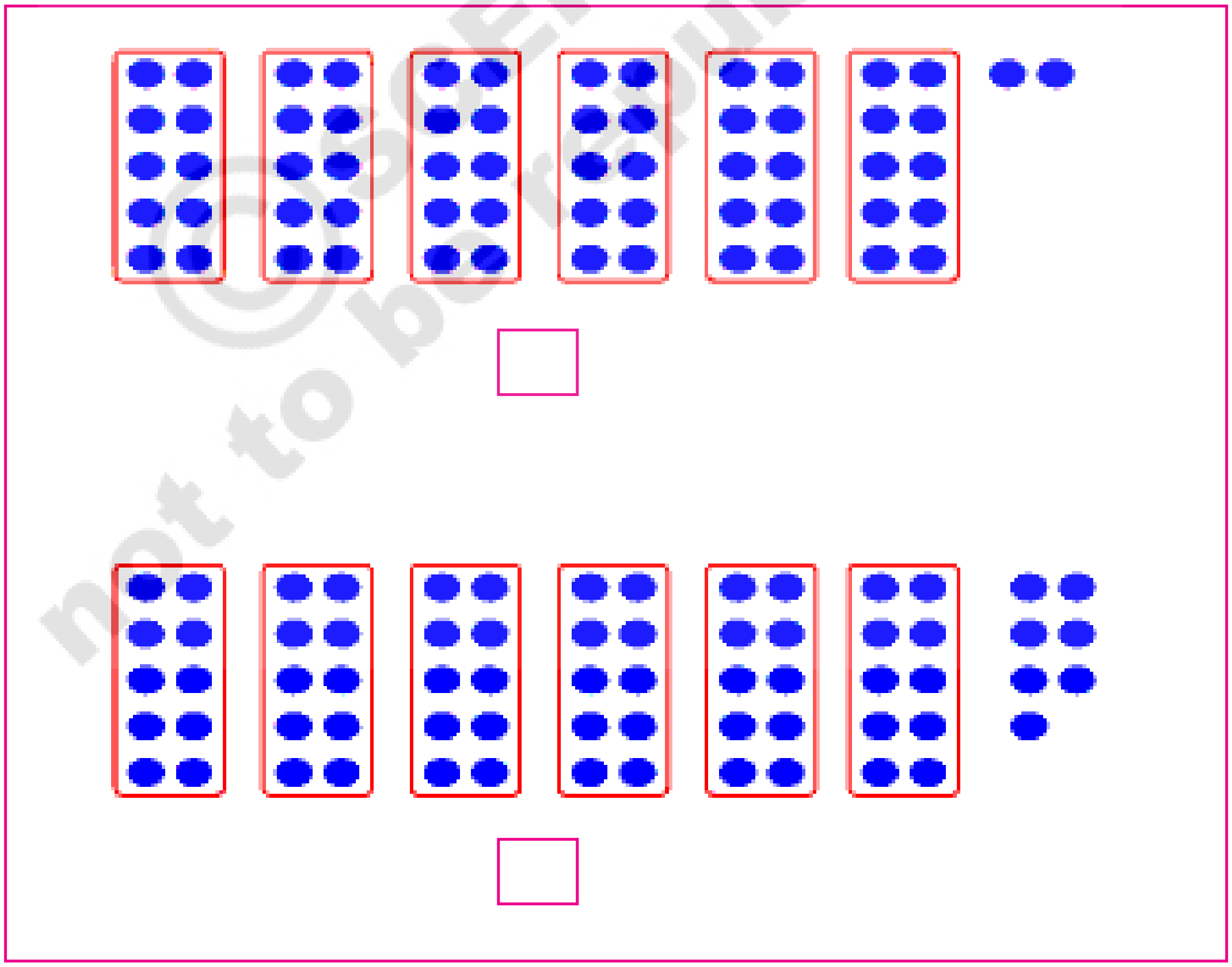

© SCERT not to be republished

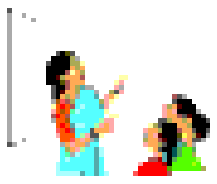

పై బొమ్మలో చుక్కలను లెక్కింపజేయండి. సంఖ్యలలో ఏది పెద్దదో ఏది చిన్నదో పై విధంగా అవగాహన కల్పించండి.

ఆంధ్రప్రదేశ్ ప్రభుత్వం వారిచే ఉచిత పంపిణీ

అభ్యాసకృత్యాలు

(అ) ముందు సంఖ్యను రాయండి.

	44

	74

	60

	94

	55

	21

(ఆ) తర్వాత సంఖ్యను రాయండి.

29	

46	

65	

87	

40	

69	

©SCERT not to be republished

(ఇ) మధ్య సంఖ్యను రాయండి.

29		31

25		27

49		51

70		72

(ఈ) మధ్య సంఖ్యను చూడండి. ముందు, తరువాత సంఖ్యలను రాయండి.

	63	

	89	

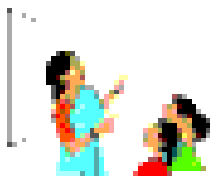

పై అభ్యాసకృత్యాలు పిల్లలు సొంతంగా చేసేలా సూచనలు అవగాహన కల్పించండి.

(ఉ) చిన్నసంఖ్యను '◯' తో చుట్టండి.

ఉదా :	76	54 ◯	(ఇ)	32	59
(అ)	69	36	(ఈ)	85	81
(ఆ)	34	94	(ఉ)	76	67

(ఊ) పెద్దసంఖ్యపై '✓' ఉంచండి.

ఉదా :	✓52	37	(ఇ)	76	67
(అ)	68	92	(ఈ)	53	58
(ఆ)	39	31	(ఉ)	41	64

© SCERT not to be republished

(ఎ) కింది సంఖ్యలలో అతి చిన్నసంఖ్యను '◯' తో చుట్టండి.

ఉదా:	87,	76,	83,	73,	51 ◯
(అ)	96,	53,	21,	12,	37
(ఆ)	92,	16,	37,	73,	14
(ఇ)	52,	60,	94,	51,	49
(ఈ)	76,	22,	37,	12,	64

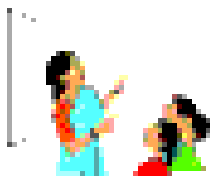

పై అభ్యాసకృత్యాలు పిల్లలు సొంతంగా చేసేలా సూచనలు అవగాహన కల్పించండి.

(ఏ) కింది సంఖ్యలలో అతి పెద్దసంఖ్యపై '✓' ఉంచండి.

ఉదా:	34,	57,	12,	✓ 67,	53
(అ)	64,	59,	41,	72,	84
(ఆ)	32,	91,	82,	67,	38
(ఇ)	87,	64,	59,	86,	68
(ఈ)	19,	91,	89,	98,	76

(ఐ) కింది సంఖ్యలను చూడండి. చిన్నసంఖ్య నుండి పెద్దసంఖ్యకు, పెద్దసంఖ్య నుండి చిన్నసంఖ్యకు వాటి పక్క గళ్లలో రాయండి.

సంఖ్యలు	చిన్నసంఖ్యనుండి పెద్దసంఖ్య	పెద్దసంఖ్యనుండి చిన్నసంఖ్య
ఉదా: 21, 36, 45, 69	21, 36, 45, 69	69, 45, 36, 21
(అ) 60, 30, 45, 80	____ ____ ____ ____	____ ____ ____ ____
(ఆ) 96, 41, 12, 68	____ ____ ____ ____	____ ____ ____ ____
(ఇ) 9, 25, 14, 78	____ ____ ____ ____	____ ____ ____ ____

©SCERT not to be republished

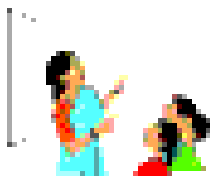

పై అభ్యాసకృత్యాలు పిల్లలు సొంతంగా చేసేలా సూచనలు అవగాహన కల్పించండి.

(ఒ) ఆట ఆడండి.

© SCERT not to be republished

కింది సూచనలకు అనుగుణంగా ఆట ఆడండి.

★ నలుగురు పిల్లల చొప్పున గ్రూపులుగా ఏర్పడండి.

★ ప్రతి గ్రూపు వారు 1 నుండి 96 వరకు సంఖ్యలు రాసి ఉన్న కార్డులను బాగా కలగలిపి అందరూ సమానంగా పంచుకోండి.

★ వచ్చిన కార్డులను బాగా కలిపి ఎవరి ముందు వారు బోర్లించి ఉంచండి. (సంఖ్యలు కనబడకుండా)

★ తమవద్ద ఉన్న కార్డులలో పైన ఉన్నదానిని ఒక్కొక్కరు చూపించండి.

★ చూపించిన 4 కార్డులలో పెద్దసంఖ్య కార్డు ఎవరిదో వారికి మిగతావారు తాము చూపించిన కార్డులు ఇవ్వండి.

★ ఇలా 5, 6 రౌండ్లు ఆడండి. చివరికి ఎవరి వద్ద ఎక్కువ కార్డులు ఉంటే వారు గెలిచినట్లు.

★ మళ్లీ మళ్లీ ఆటను ఆడండి.

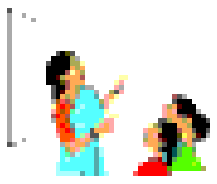

పై అభ్యాసకృత్యాలు పిల్లలు సొంతంగా చేసేలా సూచనలు అవగాహన కల్పించండి.

ఆంధ్రప్రదేశ్ ప్రభుత్వం వారిచే ఉచిత పంపిణీ